П-9

Задания олимпиады по технологии (школьный тур) для учащихся 7 классов

+ ***1. Отметьте знаком «+» правильный ответ.***
Контрольные линии на деталях кроя прокладывают стежками:
а) сметочными;
б) копировальными;
в) косыми.

+ ***2. Отметьте знаком «+» правильный ответ.***
При выкраивании косой бейки ее долевую нить располагают:
а) под углом 30° к долевой нити;
б) поперек бейки;
в) под углом 45° к долевой нити;
г) вдоль бейки.

+ ***3. Отметьте знаком «+» правильные ответы.***
Наиболее подходящими для изготовления летнего платья являются ткани:
а) шерстяная;
б) льняная;
в) хлопчатобумажная;
г) синтетическая;
д) искусственная.

+ ***4. Отметьте знаком «+» все правильные ответы.***
При раскрое изделия необходимо учитывать:
а) расположение рисунка на ткани;
б) направление нитей основы;
в) ширину ткани;
г) величину припусков на швы;
д) направление ворса.

– ***5. Отметьте знаком «+» правильный ответ.***
Текстильные волокна делятся на натуральные и:
а) растительные;
б) минеральные;
в) химические;
г) синтетические;
д) искусственные.

+ ***6. Отметьте знаком «+» все правильные ответы.***
К швейным изделиям плечевой группы относятся:
а) юбка-брюки;
б) сарафан;

П-9

в) платье;
г) комбинезон;
д) жилет.

+ ***7. Отметьте знаком «+» все правильные ответы.***
На основе стачного шва можно выполнить следующие машинные швы:
а) расстрочной;
б) обтачной;
в) в подгибку с закрытым срезом;
г) настрочной;
д) накладной.

+ ***8. Отметьте знаком «+» правильный ответ.***
Ширина ткани - это:
а) расстояние, равное длине уточной нити;
б) расстояние от кромки до кромки;
в) расстояние, равное длине основной нити.

+ ***9. Отметьте знаком «+» все правильные ответы.***
Какой из перечисленных видов теста не является пресным?
а) бисквитное;
б) слоеное;
в) дрожжевое безопарное.

+ **10.*Отметьте знаком «+» все правильные ответы.***
К клубнеплодам относится:
а) свекла
б) картофель
в) пастернак

— **11. Перечислите детали, из которых изготовлен фартук, представленный на рисунке:**



Ответ:

1……

2……

3……

4……

5……

П-9

12.*Отметьте знаком «+» все правильные ответы.*
Углеводы не содержаться в
а) мясе
б)фруктах
в) рыбе
г) крупах

13.*Отметьте знаком «+» все правильные ответы.*
Вырезанная из бумаги деталь изделия - это:
а) подрез
б) выкройка
в) шаблон
д) конструкция

14. Закончи предложение

Расстояние между двумя проколами иглы называют стежком

15. Найти соотношение условного обозначения и названия мерок

1	**Ст**	**А**	**Полуобхват бедер**
2	**Ди**	**Б**	**Полуобхват талии**
3	**Сб**	**В**	**Длина спины до талии**
4	**Дст**	**Г**	**Длина изделия**

1..Б..**2**..Б..**3**..А..**4**..В..

16. Отметьте буквой «И» истинное утверждение, буквой «Л» - ложное

1	**Долевая нить в ткани проходит вдоль кромки**	
2	**Нить утка тонкая, гладкая**	
3	**У нити основы звук глухой при хлопке**	
4	**Нить утка сильно растягивается**	

1..И..**2**..Л..**3**..Л..**4**..И..

17. Напишите название заштрихованной детали:

Ответ: подкройная обтачка

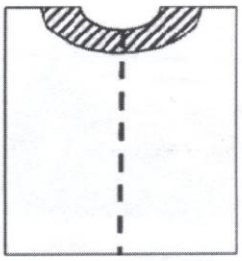

П-9

18.Закончи предложение:

Перед тем, как построить чертёж изделия на свою фигуру нужно снять мерки

19. Отметьте знаком «+» все правильные ответы.
Шов вподгибку с закрытым срезом относится к:
А) бельевым швам
Б) соединительным швам
В) краевым швам

20. Отметьте знаком «+» все правильные ответы.
Для предохранения срезов деталей от осыпания их:
1. заметывают;
2. обметывают;
3. приметывают;
4. заутюживают.

21. Отметьте знаком «+» все правильные ответы.
К натуральным волокнам относятся:
1. шерсть;
2. вискоза;
3. капрон;
4. хлопок;
5. шелк.

22. Отметьте знаком «+» все правильные ответы.
При обработке низа изделия применяют:
1. стачной шов;
2. накладной шов;
3. обтачной шов;
4. шов вподгибку с закрытым срезом.

23. Дайте правильные ответы на месте знака вопроса

Шп	? Шс	Ст	Дтс	Оп
? ширина плеча	Ширина спины	Полуобхват талии	? длина изделия по талии	? обхват бедра

24. Определите по рисунку вид ручного шва

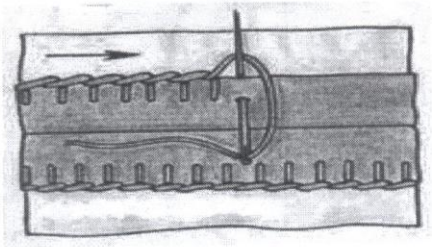

Ответ: _____

П-9

25. Отметьте знаком «+» все правильные ответы

Юбки по конструкции бывают:

а) диагональные;
б) прямые;
в) клиньевые
г) клешёные;
д) конические;
е) расширенные.

18 бал.

Моделирование швейных изделий.

Максимальный балл - 20

Дан вид юбки спереди:

Юбка прямая, с фигурной кокеткой спереди. Линия талии оформлена притачным поясом. Застежка на тесьму-молнию в левом боковом шве.

Задание:

1. Назвать детали переднего полотнища, указать их количество.
2. В соответствии с эскизом внесите изменения в базовый чертеж основы юбки.
3. Указать направление долевой нити, сгиб (если есть), середину детали (если есть)

Модель юбки	Базовый чертёж
 1 – кокетка (1) 2- пояс (1) 3 – нижнее полотнище	

П–9

Задание к практической работе для учащихся 7 классов

Двойной шов применяется в основном при изготовлении постельного белья, стачивании подкладки карманов.

Вам потребуется два куска ткани размером 15х10 см.

№ п/п	Содержание операции	Рисунок
1	Детали складываем изнаночной стороной внутрь и, уровняв срезы, стачиваем вдоль длинной стороны (Рис. 1) по лицевой стороне на расстоянии 0,3 - 0,4 см от края	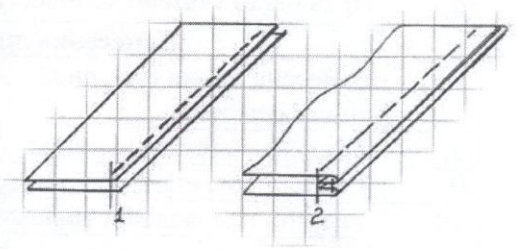
2	Срезы разутюживаем	
3	Перегибаем детали лицевыми сторонами внутрь и прокладываем вторую строчку, отступая от края на 0,5-0,7 см. Припуски ткани на шов закрыты строчкой (Рис. 2)	
4	Шов приутюживаем	

Самоконтроль:

- машинные строчки – ровные, аккуратные;
- ширина швов соответствует заданным величинам;
- наличие машинных закрепок;
- качество ВТО;
- соблюдение правил техники безопасности.

П9.

Карта пооперационного контроля
«Моделирование юбки»
7 класс

	Критерии оценки качества работы	Баллы	Результат
1.	Правильно названа деталь «кокетка»	1,0	+
2.	Правильно названа деталь «Нижняя часть переднего полотнища»	1,0	+
3.	Правильно названа деталь «пояс»	1,0	+
4.	Правильно указано количество деталей: кокетка – 1 дет.	1,0	+
5.	Правильно указано количество деталей: нижняя часть переднего полотнища – 1 дет.	1,0	+
6.	Правильно указано количество деталей: пояс – 1 дет.	1,0	+
	Нанесение линий фасона на основу чертежа		
7.	Нанесена линия фигурной кокетки через конец вытачки к линии середины	2,0	—
8.	Указано закрытие вытачки	1,0	—
9.	Указано «отрезать» по линии кокетки	2,0	—
10.	Указано направление долевой нити на кокетке	2,0	—
11.	Указано направление долевой нити на нижней части переднего полотнища	2,0	+
12.	Указан сгиб на кокетке	1,0	+
13.	Указана середина кокетки	1,0	+
14.	Указан сгиб на нижней части переднего полотнища	1,0	+
15.	Указана середина переднего полотнища		+
16.	Аккуратность выполненной работы	2,0	
	Итого	**20**	10 бал.

Контроль качества выполнения практической работы
«Выполнение двойного шва»
для учащихся 7 классов

№ п/п	Этап контроля	Количество баллов	
1	Детали кроя соответствует заданным размерам	8	+
2	Машинная строчка проложена параллельно срезу	8	+
3	Вторая машинная строчка проложена строго на расстоянии 0,5-0,7 см от края, параллельно первой машинной строчке	8	+
4	Качество строчки (равномерность натяжения верхней и нижней нитей)	4	—
5	Наличие закрепок	4	+
6	Влажно-тепловая обработка выполнена качественно	4	+
7	Соблюдение безопасных приемов труда	4	+
	Всего:	**40**	

36 бал.

Итого. 64 бал.

общ. кол. во (100%) — 75%